PRÉNOM Correction

RITUELS MATHÉMATIQUES

LUNDI 15/06	Pyramide de calcul 18 8 10 3 5 5	Encadre les nombres 30<31<32 55<56<57 39<40<41 87<88<89	 2h00min	Trouve le nombre 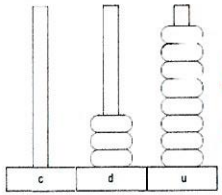 8u 3d 38	Dessine 12 € 10 € 2€
MARDI 16/06	Dessine 23 € 20 € 2€ 1€	Pyramide de calcul 33 13 20 5 8 12	Avec les dizaines et unités, dessine le nombre 57 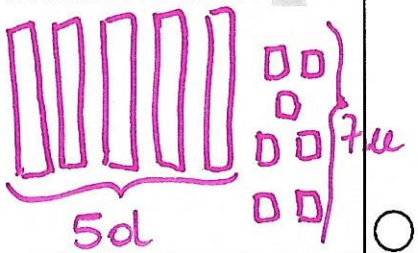 5d 7u	 9h00min	Trouve le nombre 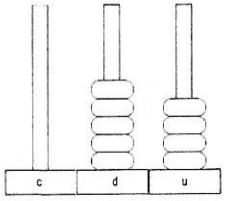 54
JEUDI 18/06	Trouve le nombre 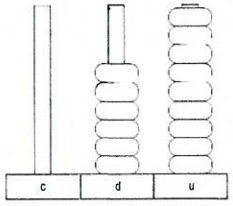 69	Dessine 17 € 10 € 5€ 2€	Pyramide de calcul 27 16 11 7 9 2	Recompose les nombres 10+8=18 30+7=37 2+80=82 90+7=97	 7h00min
VENDREDI 19/06	 11h00min	Trouve le nombre 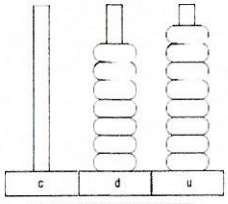 78	Dessine 25 € 20 € 5€	Pyramide de calcul 26 12 14 4 8 6 8+?=14	Écris des nombres en chiffre à partir de ces mots quarante – vingt – six – quatre 26 vingt-six