6ième D	LE CODAGE

LA PHRASE EN FRANÇAIS	LE CODAGE	LA FIGURE
LA DROITE …… …… …… Attention, parfois une droite se note avec une seule lettre minuscule et entre des parenthéses		A B
LA DEMI-DROITE …… …… ……		A B
LE SEGMENT …… …… ……		A B
LA LONGUEUR DU SEGMENT …… …… ……		A B

APPARTENIR ou NE PAS APPARTENIR :

☺ Le point **A appartient** à la droite (d). On note

Le point **M n appartient pas** à la droite (d). On note

Les point A, B et C appartiennent à la droite (d).

On dit que A, B et C sont

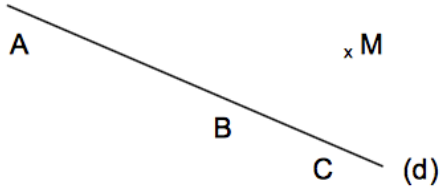

Exercice 1 : AUTRE VOCABULAIRE et CODAGE SUR UNE FIGURE GEOMETRIQUE

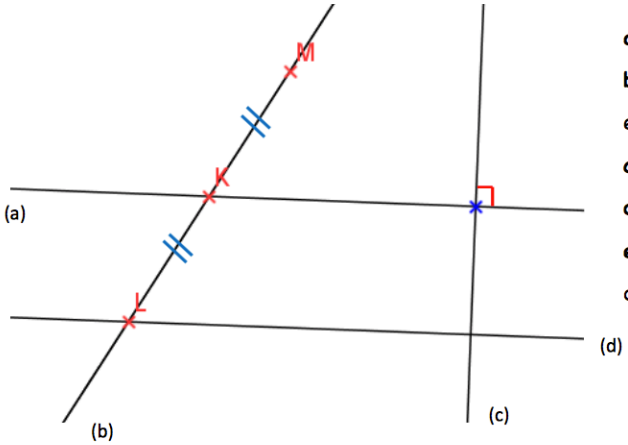

a. L, K, M sont _____.

b. L est le _____ des droites (d) et (b).

c. (d) et (b) sont _____.

d. [LK] et [KM] sont _____.

e. K est le _____ de [LM].

Exercice 2

Avec ta règle, sur la figure ci-contre

Tracer la droite qui passe par les points B et C.

Tracer le segment d'extrémités A et B.

Tracer la demi-droite d'origine A qui contient C.

Exercice 3

Ecris les consignes qui permettent de tracer la même figure que ci dessous :

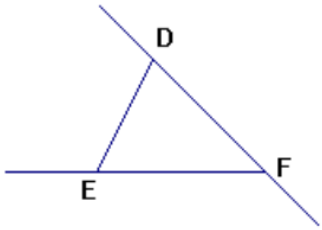

Exercice 4

Tracer une droite (AT) comme ci-dessus.

Placer un point M tel que : M $\in$ [TA) et M $\notin$ [AT]

Placer un point H tel que : H $\in$ [AT) et H $\notin$ [AT]

Placer un point S tel que : H $\in$ [TS]

Exercice 5

Reproduis la figure ci contre dans ton cahier. Un petit carreau de la figure sera un carreau de ton cahier.
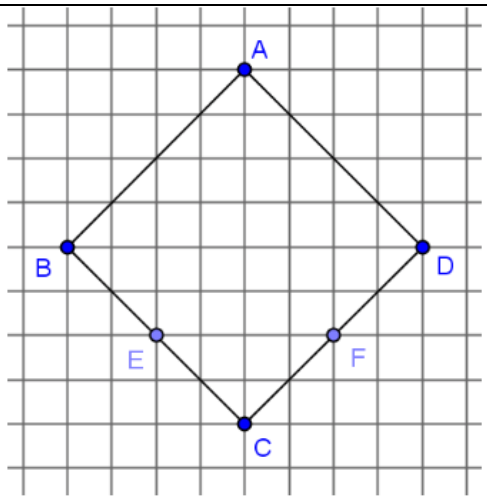
1) Placer le point R qui appartient à la fois aux droites (AB) et (DE).
2) Placer le point S, le point d'intersection des droites (AD) et (BF).
3) Placer le point V tel que les droites (AE) et (DC) sont sécantes en V
4) Placer le point T tel que les points A, F et T sont alignés et les points B, C et T sont alignés aussi.